## هوش تحلیلی

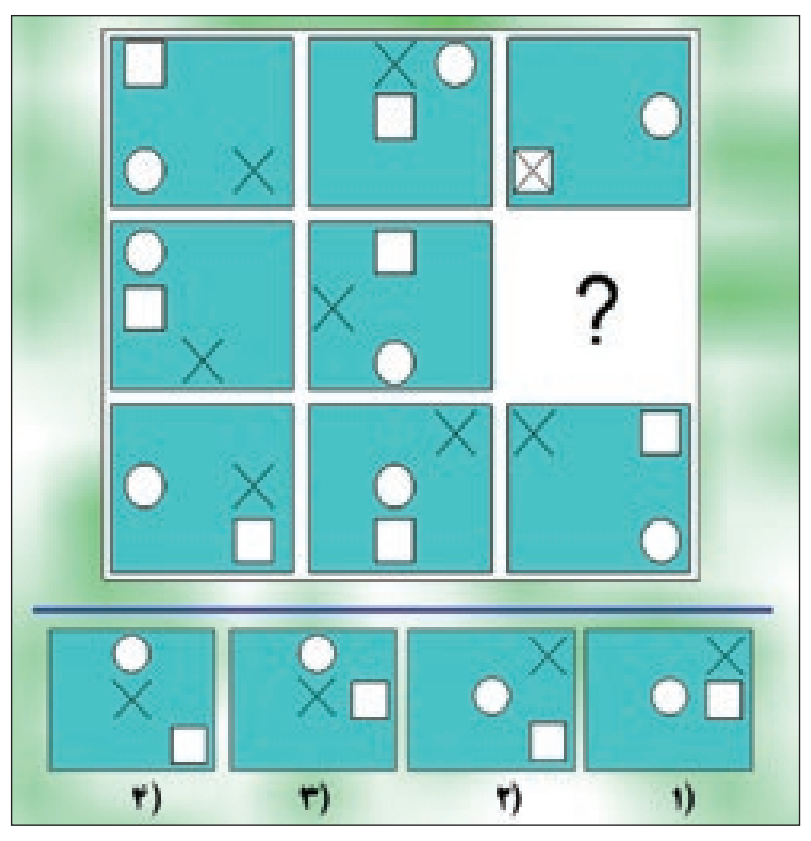

با توجه به الگوی تصویری داده شده به جای علامت سوال گزینه مناسب را قرار دهید.

## خفن استریپ

حدس بزنید تصویر، چه کلمه ای را نشان می دهد! به نمونه توجه کنید و برای این که بدانید کلمه چند حرفی است، تعداد خانه های زیر تصویر را بشمارید.


نمونه
پ
A
B
C
D

○○○○○○

## معما

### چه کسی قاتل است؟

مردی در دفتر کارش با ضربات چاقو به قتل رسیده است. اما قبل از مرگ، توانسته چاقو را از بدنش بیرون بیاورد و روی تقویم میزش دور ماه های اردیبهشت، اسفند، مرداد، بهمن، دی و شهریور با خون روی چاقو خط بکشد. کارآگاه پس از بررسی تمامی شواهد به ۵ نفر به شرح زیر مشکوک شد:

۱. سرایدار دفتر مقتول: آقا مسلم ۲. همکار مقتول: بامشاد ۳. همسر مقتول: نسترن، ۴. منشی مقتول: مهرنوش ۵. دوست مقتول: بهرنگ – به نظر شما قاتل کدام یک از ۵ مظنون است؟

## معما

### به صرف شام

چهار زن و شوهر برای شام سر میزی مستطیل شکل نشسته اند. زن ها یک طرف و شوهرها طرف دیگر میز هستند. در ضمن هر زن رو به روی شوهرش قرار گرفته است. لیلی کنار کتایون و رو به روی اصغر است. خشایار کنار اصغر است، اما بغل دست هوشنگ نیست. مهری بین کتایون و فرنگیس نشسته است، ولی رو به روی خشایار نیست. با توجه به داده های بالا، نام شوهر کدام یک از خانم ها مشخص نیست؟

۱–فرنگیس ۲–مهری ۳- کتایون ۴–لیلی

## بازی ریاضی

| | | | | | |
|---|---|---|---|---|---|
| ۴ | ۹ | ۵ | ۸ | ۱ | سه تا از این اعداد درست ولی فقط یکی در جای درست قرار دارد |
| ۵ | ۲ | ۴ | ۶ | ۷ | تمام اعداد غلط هستند |
| ۷ | ۸ | ۲ | ۳ | ۶ | دو تا از این اعداد درست و در جای درست قرار دارند |
| ۰ | ۶ | ۷ | ۴ | ۹ | دو تا از این اعداد درست ولی فقط یکی در جای درست قرار دارد |
| ۶ | ۹ | ۸ | ۴ | ۲ | دو تا از این اعداد درست ولی هیچ کدام در جای درست قرار ندارد |

اگر کمی با اعداد رابطه خوبی داشته باشید، می توانید رمز ۵ رقمی مخفی شده را بر اساس داده های بالا بیابید؛ فقط کافی است کمی دقت کنید و رابطه بین اعداد را در سطرهای بالا پیدا کنید.

## تست هوش

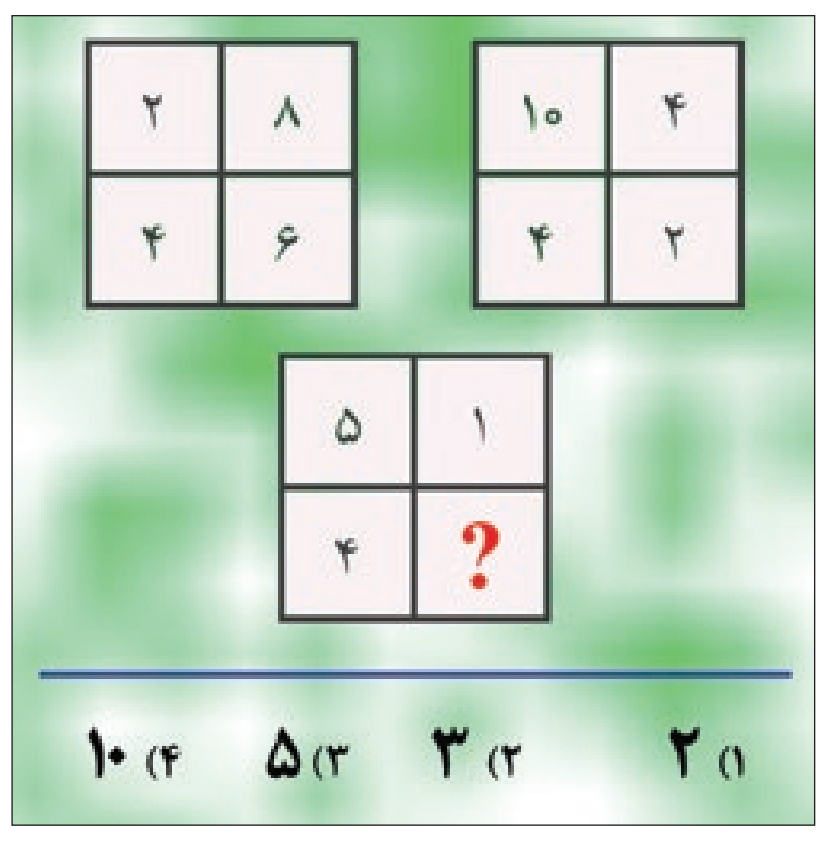
۴
۱۰
۲
۴
۸
۲
۶
۴
۱
۵
?
۴
۱) ۲
۲) ۳
۳) ۵
۴) ۱۰

با توجه به اعداد داده شده در شکل بالا، گزینه مناسب را انتخاب کنید.

## شرح در متن

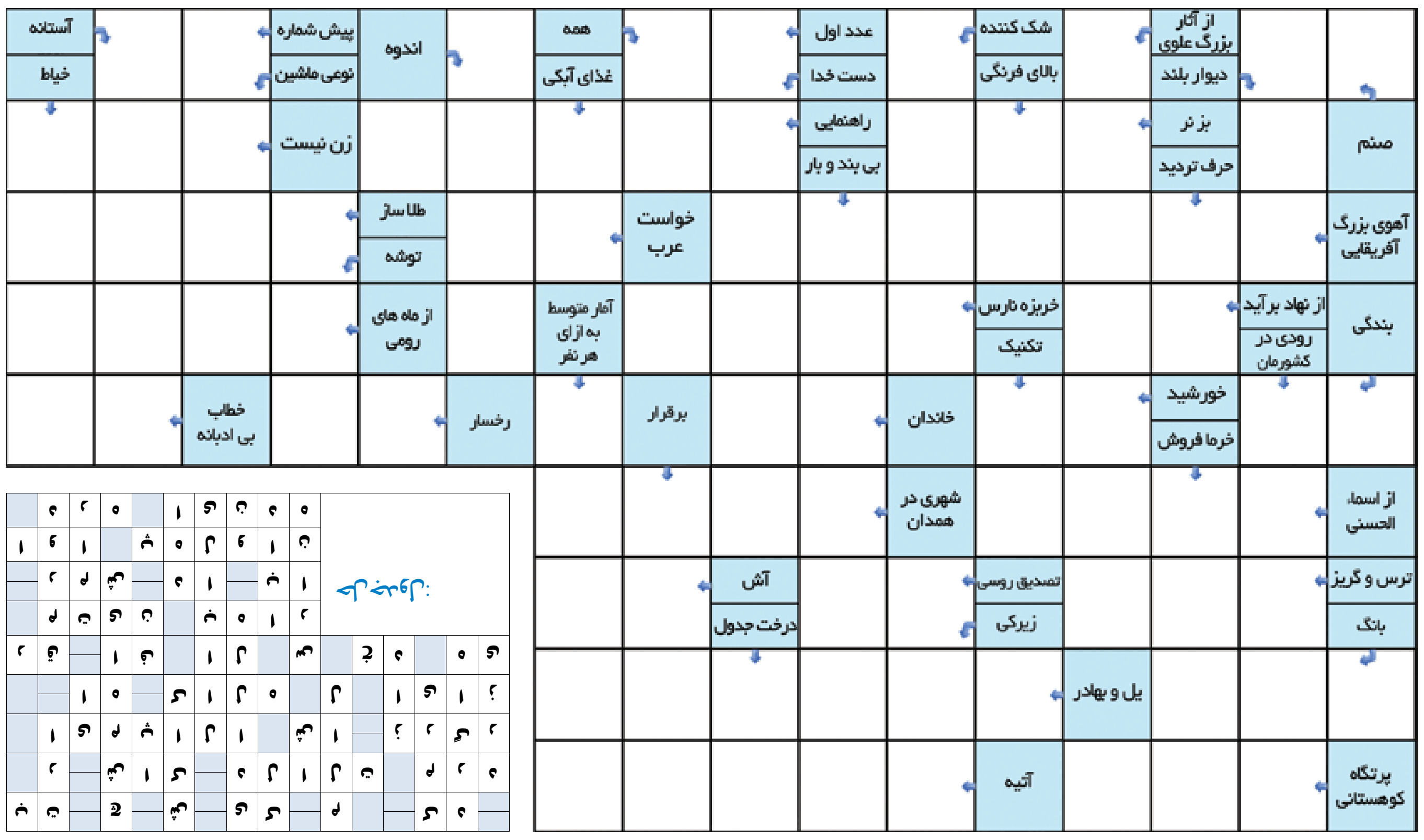
از آثار بزرگ علوی
دیوار بلند
شک کننده
بالای فرنگی
عدد اول
دست خدا
همه
غذای آبکی
اندوه
پیش شماره
نوعی ماشین
آستانه
خیاط
صنم
بز نر
حرف تردید
راهنمایی
بی بند و بار
زن نیست
آهوی بزرگ آفریقایی
خواست عرب
طلا ساز
توشه
بندگی
از نهاد برآید
روی در کشورمان
خربزه نارس
تکنیک
آمار متوسط به ازای هر نفر
از ماه های رومی
خورشید
خرما فروش
خاندان
برقرار
رخسار
خطاب بی ادبانه
از اسما الحسنی
شهری در همدان
ترس و گریز
بانگ
تصدیق روسی
زیرکی
آش
درخت جدول
یل و بهادر
پرتگاه کوهستانی
آتیه

## اختلاف تصاویر

آیا می توانید تعداد ۱۰ تفاوت را بین دو تصویر مشابه پیدا کنید؟ با این تمرین می توانید آلزایمر را از خود دور کنید. این بازی همچنین ورزشی برای ذهن شماست تا در کارهای روزمره تمرکز بیشتری داشته باشید. لذت این بازی زمانی بیشتر می شود که آن را در کنار خانواده و با مشارکت آن ها انجام دهید.



## سودوکو

قانون: ارقام ۱ تا ۹ را در خانه های خالی بنویسید طوری که در هر سطر، در هر ستون و در هر مربع ۳ در ۳ هیچ رقمی تکراری نباشد.

متوسط ۳۰ دقیقه

| | | | | | | | | |
|---|---|---|---|---|---|---|---|---|
| | ۲ | ۴ | | | | ۳ | ۹ | |
| ۱ | | | ۹ | | ۳ | | | ۵ |
| ۸ | | | | | | | | ۱ |
| | | ۲ | | ۴ | | ۱ | | |
| ۶ | | | ۲ | | ۸ | | | ۴ |
| | | ۷ | | ۶ | | ۸ | | |
| ۷ | | | | | | | | ۲ |
| ۳ | | | ۵ | | ۹ | | | ۷ |
| | ۹ | ۵ | | | | ۶ | ۸ | |

بسیارسخت ۵۰ دقیقه

| | | | | | | | | |
|---|---|---|---|---|---|---|---|---|
| ۴ | | | | | ۱ | ۶ | | |
| | ۸ | | ۵ | | | | ۷ | |
| ۱ | | | ۷ | | | ۸ | ۲ | |
| | ۹ | ۳ | | | | | | |
| ۷ | | | | ۲ | | | | ۶ |
| | | | | | | ۵ | ۴ | |
| | ۱ | ۹ | | | ۴ | | | ۷ |
| | ۲ | | | | ۵ | | ۱ | |
| | | ۴ | ۶ | | | | | ۸ |

## حل جداول ومعماها

## جدول سخت | ۸۱۲

**افقی:** ۱. قسمتی از گل–داروی بیماری آلزایمر ۲. نوعی معماری در اروپا–پروردگار–بالشتک نان پزی ۳. اسلوب–اولین امپراتور روم ۴. فدراسیون جهانی تنیس–بی حس ۵. فعل و عمل– شهر صنعتی آلمان–تصدیق آلمانی ۶. کشوری آفریقایی–انقلابی کوبا ۷. مار بزرگ بی زهر– میدان بوکس ۸. حرف انتخاب–شکاف– یار آفتابه ۹. استوار–تخته سنگ پهن ۱۰. لؤلؤ– گروه ورزشی ۱۱. نوعی شلوار –یک عامیانه– بنفش انگلیسی ۱۲. از غذاهای محلی گیلان– پلیس مخفی مخوف استالین


۱ ۲ ۳ ۴ ۵ ۶ ۷ ۸ ۹ ۱۰ ۱۱ ۱۲
۱ ۲ ۳ ۴ ۵ ۶ ۷ ۸ ۹ ۱۰ ۱۱ ۱۲

**عمودی:**

۱. از تیره گربه سانان– تخم ماهی– بستر ۲. سازمان امنیت رژیم شاه– درختچه ای زینتی ۳. مهندس معماری– شال کمر ۴. کجاست–پژواک ۵. ماده مخدر قهوه– سوم شخص ۶. نام لاتین کشور غنا–شاعر مسافر ۷. از شهرهای خراسان قدیم– رشته کوهی در قاره آمریکا ۸. ورم پای دندان– لقب امپراتوران ژاپن ۹. طویل ترین استخوان بدن– تیر پیکاندار ۱۰. قلمرو فرمانروایی–وسیله کاهش فشار گاز ۱۱. بلندترین آبشار آمریکا–گوشه ای ضربی در دستگاه شور ۱۲. منقار کوتاه– رشته کوهی در مغولستان– از اناجیل اربعه

| ۱ | ۲ | ۳ | ۴ | ۵ | ۶ | ۷ | ۸ | ۹ | ۱۰ | ۱۱ | ۱۲ |
|---|---|---|---|---|---|---|---|---|---|---|---|
| س | ا | ر | د | ی | ن | ■ | و | ر | د | ن | ه |
| ی | ا | س | ر | ■ | ا | پ | ا | س | ا | ی | ■ |
| ا | ک | ■ | م | س | ت | ا | ل | ا | ■ | ا | ی |
| و | ■ | س | ■ | ی | و | ■ | ت | ■ | ر | م | و |
| ش | ش | ل | و | ل | ■ | م | ا | ی | ا | ■ | ا |
| ■ | ا | س | ک | و | ا | ش | ■ | ■ | ن | ا | ب |
| ی | ل | ب | ■ | ■ | ک | ا | ر | ب | ی | ت | ■ |
| ا | ■ | ی | غ | م | ا | ■ | س | و | ن | ا | ت |
| ن | م | ل | ■ | ا | ■ | چ | و | ■ | گ | ■ | ا |
| ی | ن | ■ | ا | ه | ن | ر | ب | ا | ■ | ن | ن |
| ■ | ک | ا | ک | و | ت | ی | ■ | پ | ی | س | ی |
| ت | ر | ا | س | ت | ■ | ک | ر | ا | ت | ی | ن |

حل جدول شماره ۸۱۱

## جدول متوسط | ۷۶۰۶

**افقی:** ۱. نمونک–از غذاهای ایرانی ۲. آمیختن–زیر پا مانده–آیین ۳. جوی خون–ماوراء الطبیعه ۴. گهواره–کابوی معروف ۵. گوشه– کاپ–علامت مفعولی ۶. قسمتی از پا– چاپگر ۷. نوش دارو– دعای زیر لب ۸. چاشنی گوجه ای– مراقب– بی خطر ۹. درخت کنار– بالاپوش بلند ۱۰. خودکار–سکوی خانه ۱۱. فلز چاپخانه–شبکه رایانه ای–گوهر دهان ۱۲. مسجد تاریخی مشهد– همسر حضرت ابراهیم(ع)


۱ ۲ ۳ ۴ ۵ ۶ ۷ ۸ ۹ ۱۰ ۱۱ ۱۲
۱ ۲ ۳ ۴ ۵ ۶ ۷ ۸ ۹ ۱۰ ۱۱ ۱۲

**عمودی:**

۱. واحد طول–متراکم سازی گازها–نگهبان گله ۲. نهاد–مومیا ۳. حشره جهنده–نعش– درجه ۴. جانشین وضو–زمان بی آغاز ۵. از طرح های قالی–سرکش ۶. همراه اصول–پروردگار–خودداری ۷. اولین حرف الفبای فارسی–نقشه فرنگی– دور از دسترس ۸. ستاره کم پیدا–ویزا ۹. حیدر–جوش صورت ۱۰. خط نابینایان–بانگ–مادر لر ۱۱. مشایعت نظامی– رفتن به سوی آسمان ۱۲. آوای درشت– جعبه مقوایی – مرتجع فلزی

| ۱ | ۲ | ۳ | ۴ | ۵ | ۶ | ۷ | ۸ | ۹ | ۱۰ | ۱۱ | ۱۲ |
|---|---|---|---|---|---|---|---|---|---|---|---|
| ک | م | ا | ن | چ | ه | ■ | ا | ن | ت | ی | ک |
| م | و | س | م | ■ | ی | س | ■ | ا | ز | ا | ر |
| ی | ش | ■ | ا | س | ک | ن | ا | س | ■ | س | ی |
| ا | ■ | ا | ■ | ا | ل | گ | و | ■ | پ | ا | س |
| ب | ا | ز | ج | و | ■ | ل | ■ | ن | ا | ■ | م |
| ■ | ن | م | و | ■ | ب | ا | ر | ف | ی | ک | س |
| س | ی | ن | ه | س | ر | خ | ■ | ی | ا | ل | ■ |
| ر | ■ | د | ر | ■ | ا | ■ | ت | س | ن | ی | م |
| د | ر | ی | ■ | ا | ن | ب | ر | ■ | ه | ■ | و |
| و | س | ■ | ک | ا | ش | ا | ن | ه | ■ | م | س |
| ش | و | ر | ا | ■ | ی | ر | ■ | م | ا | د | ی |
| ی | ا | خ | ت | ه | ■ | م | و | ه | ی | ت | و |

حل جدول شماره ۷۶۰۵